الصف الرابع الأساسي

أسئلة متابعة رياضيات (٣٠٤)

الوحدة الأولى: الأعداد وعمليتا الجمع والطرح

* اكتب الأعداد الآتية بالأرقام:

- ثمانية وخمسون ألفًا وثلاثمئة وثلاثة وستون _____
- أربعة عشر ألفًا ومئتان وستون _____
- أربعمئة ألف وسبعمئة وأربعة وخمسون _____
- أربعمئة واحد وخمسون ألفًا وسبعة عشر _____
- خمسمئة ألف وثلاثة _____
- خمسون ألفًا وعشرة _____
- مئتان وسبعة الآن ٥٥٦ _____

* اكتب الأعداد الآتية بالكلمات:

- ٣٢٥٢٠ _____
- ٧١٧٠٠ _____
- ٥١١٠٠ _____
- ٩٣٠٤٥٠ _____

* مثل الأعداد التالية بالطريقة التحليلية

- ١٤٣٧٥ = _____
- ٥٠٤٠٢ = _____
- ٦٧٢٢٧٣ = _____

* اكتب القيمة المنزلية للرقم ٩ في الأعداد التالية:

- ٣٥٩٧٠ _____
- ٢٩٣١٢ _____
- ١٩٥٥٢١ _____
- ٩٥٦٧٢١ _____
- ١٧٢٥٩ _____
- ٣٣٥٩٧ _____

* ضع اشارة > أو < أو = في □ :

١- ثلاثة وخمسون ألفًا □ ٣٤٠٥٢٠
٢- ٧٠٤٥٦ □ ٩٥٢١٧
٣- ٩٠٠٤٠ □ ٩٠٤٠٠
٤- سبعمئة ألف □ ٧٠٠٠٠
٥- ٨ + ٩٠ + ٥٠ + ٤٠٠ + ٢٠٠٠٠ □ ٢٠٤٥٩٨

* رتب الأعداد التالية تصاعديًا:

٦٧٢٢٨ ، ٤٦٥٩٢ ، ٤٥٨٦٨

_____ ، _____ ، _____

* رتب الأعداد التالية تنازليًا:

٩٠١٧٣٦ ، ٧١٤٨٠٠ ، ٩٩٥٤٣

_____ ، _____ ، _____

• ضع ناتج الضرب فيما يأتي :

٣ × ٩ =	٨ × ٣ =	١٣ × ٩ =
٨ × ٧ =	٦ × ٤١ =	٤٢ × ٥ =
٦ × ٨ =	٣٠ × ٩ =	٣١٥ × ٤ =
٤ × ٩ =	٥٠ × ٦ =	٦١٢ × ٤ =

١٦ × ٣	٣٥ × ٢	١٧٩ × ٥	٦٣١ × ٧	٣٩٥٣ × ٦
٣٦ × ١٢	٧٥ × ٣٤	١٠٧ × ٤٢	٩٥٧١ × ٧٣	١٧١٣٢ × ٦٥

• قدر ناتج الضرب :

٩٦٢ × ٦ ←

٧٣٨ × ٤٣ ←

• كم صفرا في (١) صفرات :

• إذا كان انتاج مصنع للكرتون في اليوم الواحد (٤٩٥٠) قطعة من الكرتون ، كم قطعة ينتج المصنع في (٧) أيام ؟

• يتبرع محمد كل يوم جمعة لمسجد بقطع سماره (٥) فاكم ، كم ستكون مجموع ما تبرع به محمد للمسجد بعد مضي (٣٦) جمعة .

• أكمل الجدول الآتي :

العدد	١	٣	٣		٥		٧	٨		١٠
مربع العدد				١٦		٣٦			٨١	

• أكتب الأعداد التي مربعاتها بين (٨) ، (٣٧) ؟

• أكتب العدد المناسب في ☐

٨ ٣ ٢ × ☐ = ☐ ☐ ٤	٥ ٩ ☐ × ٤ = ☐ ☐ ☐ ٦	مربع العدد ٩ = ☐
	☐ ☐ ☐ ٦ +	مربع العدد ٥ = ☐
	☐ ٤ ☐ ٢	مربع العدد ٦ = ☐
	٦ ☐ ٣ ☐ ٢	العدد الذي مربعه ٤٩ = ☐

• أكتب مضاعفات الأعداد التالية :

المضاعف / العدد	الأول	الثاني	الثالث	الرابع	الخامس	السادس	السابع	الثامن	التاسع	العاشر
٣										
٦										
٧										
٩										
٨										

• أكتب أول خمس مضاعفات للعدد :

العدد (٥)
العدد (٤)
العدد (٣)
العدد (١٠)

• جد ناتج ما يحت مكتوب عليه ضمة التمل :

٧٢٠ ÷ ٩ = الشتي
٨١٠٠ ÷ ٩ = الشتي
٤٨٠٠٠ ÷ ٦ = الشتي

٦٥ ÷ ٤ — القسمة
٧٢٨ ÷ ٨ — القسمة
٦٣٨ ÷ ٤ — القسمة
٩٨٥ ÷ ٣ — القسمة

• جد أرباع عوامل الأعداد التالية مع ذكر السبب (الأول على الترتيب)

٣٥
٣٣
٤٨
١٦
٣٦
٥٤
٣٥
٢٠

• شجرة للأشجار التفاح فيها (٦٨٨) شجرة موزعة في (٨) صفوف كم عدد الأشجار في الصف الواحد ؟

• صناع كل مما يأتي :

= (٥ × ٣) ÷ ٣
= ١٦ ÷ ٢ × ٣ + ٥
= (٧ × ٧) + ٢٨ ÷ ٤
= ٣ × ٦ + (١٢ ÷ ٣) + ٨ − ٢

= (١٦ ÷ ٤) × ٢ + ٢
= ٣ × (٥ + ٨)

أضع العدد المناسب في □

□ ÷ ٥ = ٧٠
(١٠ − □) × ٣ = ٢٤
□ × ٦ ÷ ٤ = ٩

أسئلة شاملة بالإجابات (٤ - ٥)

الوحدة الرابعة (الكسور والأعداد الكسرية)

* استفد من لوحة الكسور الآتية أكتب كسور متكافئة :



$\frac{1}{2} = \frac{2}{4} = \frac{3}{6} = \frac{4}{8} = 1$



$\frac{1}{4} = \frac{2}{8} = \frac{3}{12} = \frac{4}{16}$

* أكتب ثلاثة كسور مكافئة للكسور التالية :-

$\frac{1}{2} =$ $\frac{9}{18} =$

$\frac{2}{5} =$ $\frac{4}{10} =$

$\frac{3}{7} =$ $\frac{36}{84} =$

* أكتب العدد المناسب في □ لكل مما يأتي مستفيدا من صفة الثلاث :

$\frac{1}{2} = \frac{\square}{6}$ $\frac{3}{5} = \frac{\square}{15}$ $\frac{24}{36} = \frac{8}{\square}$

$\frac{12}{36} = \frac{4}{\square}$ $\frac{1}{2} = \frac{3}{\square}$ $\frac{6}{\square} = \frac{12}{24}$ $\frac{27}{81} = \frac{\square}{3}$

* عين الكسر $\frac{2}{3}$ على خط الأعداد



* أكتب الكسور الآتية في أبسط صورة :

$\frac{18}{24} =$ $\frac{24}{32} =$ $\frac{27}{72} =$

$\frac{5}{10} =$ $\frac{9}{18} =$ $\frac{12}{18} =$

* أكتب العدد المناسب في □

$\frac{18}{27} = \frac{2}{\square}$ $\frac{15}{25} = \frac{\square}{5}$ $\frac{12}{18} = \frac{2}{\square}$

* حول العدد الكسري إلى كسر في كل مما يأتي :

$2\frac{3}{4} =$ $5\frac{6}{9} =$

$3\frac{1}{2} =$ $4\frac{2}{5} =$

$3\frac{4}{5} =$ $5\frac{1}{6} =$

- أوجد ناتج الطرح في ما يأتي في أبسط صورة:

$٨\frac{٣}{٤} - ٦\frac{٥}{٨} =$ ، $٩\frac{٣}{٥} - ٤\frac{١}{١١} =$

$٩ - ٤\frac{١}{٣} =$ ، $٣\frac{٣}{١٦} - ٢\frac{١}{٨} =$

$٥ - ٢\frac{١}{٣} =$ ، $٢\frac{٣}{٤} - ١\frac{٣}{٤} =$

- ضع العدد المناسب في □ :

$\frac{\square}{١٢} - \frac{١}{٣} = \frac{\square}{٤}$ ، $\frac{\square}{١٥} = \frac{\square}{٣} = \frac{٣}{\square} \cdot \frac{٣}{\square}$

$٢ - ٢\frac{١}{٣} = \frac{\square}{٣}$ ، $\square\frac{\square}{٥} = ٢ - ٨\frac{٣}{٥}$

- مع محمد (٧) دنانير ، اشترى سلالا $٢\frac{١}{٢}$ دينار ، فكم بقي معه ؟

- وضع تامر (٢٠ ج) كغ من السكر في كيس ، ثم أضاف في الكيس الأول $(١٥\frac{١}{٢})$ كغ ، فكم كيلو غراما وضع في الكيس الثاني ؟

الدرس الثاني (الكسور العشرية) :

- تتكون أفراح المطعم في كل من الأشكال الآتية كسورا ، ثم كسورا عشرية

الكسر العادي :
الكسر العشري :



الكسر العادي :
الكسر العشري :

- تتكون أفراح المطعم في كل من الأشكال الآتية كسورا ، ثم كسورا عشرية

الكسر العادي :
الكسر العشري :

الكسر العادي :
الكسر العشري :

- أكتب الكسور العادية التالية كسورا عشرية

$\frac{٣}{١٠} =$ ، $\frac{٨}{١٠} =$ ، $\frac{٥}{١٠} =$

$\frac{٩}{١٠} =$ ، $\frac{٩}{١٠} =$ ، $\frac{٧}{١٠} =$

- عبر عن الكسور العشرية ٠,٩ ، ٠,٥ ، ٠,٣ في لوحة المنازل

الوحدة مشرح	الجزء من عشرة	الأجزاء	العشرات

$= 7\frac{7}{10}$

$= 2\frac{70}{100}$

$= 4\frac{98}{100}$

٥ اكتب الأعداد العشرية ٣و٧ ، ٦و٠٠ ، ١٧و٨٤ في الرتبة المناسبة :

العشرات	الآحاد	المائة الصحيحة	الجزء من عشرة	الجزء من مائة

٦ ضع اشارة > أو < أو = في ☐ لتكون العبارة صحيحة :

٩٧و٣ ☐ ٥و٤ ، ٤٣و١٠ ☐ ٥٦و١٠

١٠و٣ ☐ ٧١و٠ ، ٥٧و٢ ☐ ٩٠و٣

٤و١٠ ☐ ١٠و٠٤ ، ٠٣و٣ ☐ ٣و١

٧ رتب الأعداد العشرية ٤٥و١ ، ٨٩و٠ ، ٤١و١ تنازليا

مع اشياقي للجميع بالنجاح

المعلمة :
نهرين سايلة